ACERTIJOS DE PATRONES

Acertijos de lógica visual para adultos

200 acertijos de razonamiento: matrices de figuras, series, analogías, papel doblado, cubos y números, de Fácil a Experto, con soluciones explicadas



Lucía Romero

Sample pages

Acertijos de lógica visual para adultos

200 acertijos de razonamiento: matrices de figuras, series, analogías, papel doblado, cubos y números, de Fácil a Experto, con soluciones explicadas

Copyright © 2026 Lucía Romero. Todos los derechos reservados.

Ninguna parte de este libro puede reproducirse, almacenarse ni transmitirse de ninguna forma ni por ningún medio sin el permiso por escrito del editor, salvo citas breves en una reseña. Las páginas de acertijos pueden fotocopiarse para uso personal o para una sola clase.

Los 200 acertijos de este libro son originales. Cada uno se comprobó con dos programas informáticos independientes: uno lo construyó a partir de sus reglas y otro lo volvió a resolver a partir de las imágenes impresas, así que cada acertijo tiene exactamente una respuesta.

Este libro es para practicar y divertirse. No es un test de CI, no mide el CI ni ninguna puntuación y no está afiliado a ninguna editorial de tests ni a ningún programa de evaluación o centro educativo, ni cuenta con su respaldo.

Primera edición, 2026

Índice

Cómo usar este libro 4

1. Matrices de figuras 5

2. ¿Qué sigue? 30

3. Analogías de figuras 40

4. El intruso 49

5. Papel doblado 56

6. Espejos y giros 64

7. Desarrollos de cubos 71

8. Series numéricas 79

9. Cuadrículas numéricas 84

Soluciones 88

Registro de puntuación 99

Sample pages

Cómo usar este libro

Este libro tiene 200 acertijos de razonamiento originales de 9 tipos: matrices de figuras, series de figuras, analogías de figuras, encontrar el intruso, papel doblado, espejos y giros, desarrollos de cubos, series numéricas y cuadrículas numéricas. Cada capítulo empieza con un ejemplo resuelto, y en cada capítulo los acertijos suben de Fácil a Experto. Cada acertijo tiene exactamente una respuesta, y las soluciones explican qué reglas llevan a ella.

Consejos

- Trabaja a lápiz y escribe tu respuesta junto a cada acertijo; las respuestas con su explicación empiezan en la página 88.
- Busca una regla cada vez. La mayoría de los acertijos combinan dos o más reglas: la forma, el sombreado, el tamaño, el número, la posición y el giro pueden seguir cada uno su propia regla.
- Compara tu respuesta con todas las opciones. Cada opción equivocada rompe al menos una regla, y las más parecidas solo cambian en un detalle.
- Cronométrate si quieres: el registro de puntuación del final guarda tu progreso en cada capítulo.

Los niveles

★☆☆☆	**Fácil**	una regla que descubrir
★★☆☆	**Medio**	dos reglas a la vez
★★★☆	**Difícil**	tres reglas, o una regla más difícil
★★★★	**Experto**	cuatro reglas, imágenes combinadas, pliegues y giros

Una nota sobre el CI: estos acertijos son del tipo que se usa en las pruebas de razonamiento, pensados para practicar y divertirse. Este libro no es un test de CI y no puede medir el CI.

En este libro

Matrices de figuras · acertijos del 1 al 48

¿Qué sigue? · acertijos del 49 al 74

Analogías de figuras · acertijos del 75 al 98

El intruso · acertijos del 99 al 122

Papel doblado · acertijos del 123 al 142

Espejos y giros · acertijos del 143 al 158

Desarrollos de cubos · acertijos del 159 al 172

Series numéricas · acertijos del 173 al 188

Cuadrículas numéricas · acertijos del 189 al 200

Sample pages

CAPÍTULO 1

Matrices de figuras

Cada cuadrícula sigue reglas que van a lo largo de sus filas. De un recuadro a otro, una figura puede crecer o encogerse, girar, cambiar de sombreado o aparecer exactamente una vez en cada fila; en las cuadrículas más difíciles, el tercer recuadro se forma combinando los dos primeros. Descubre qué cambia en las dos primeras filas y aplica las mismas reglas para completar la última.

Acertijos del 1 al 48, de Fácil a Experto.

EJEMPLO RESUELTO

Ej. **¿Qué imagen completa la cuadrícula?** ★☆☆☆



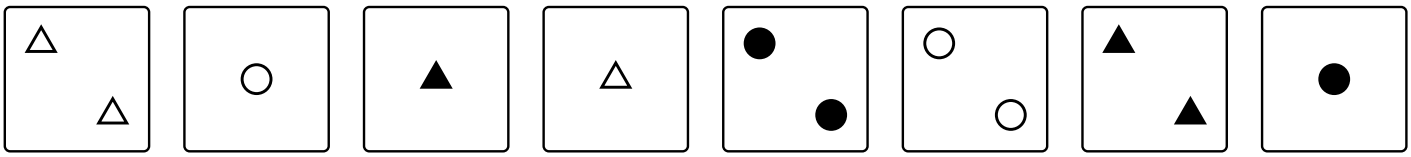

Respuesta: B. En cada fila, el número de figuras es 1, 5 y 6, en cualquier orden: cada valor aparece una vez. La forma y el sombreado se mantienen iguales a lo largo de cada fila. Por lo tanto, la imagen que falta muestra un círculo blanco: B.

En qué fijarse

- Compara los recuadros de una fila: ¿qué se mantiene igual y qué cambia?
- Revisa un rasgo cada vez: forma, sombreado, tamaño, número, posición, dirección.
- Si el tercer recuadro parece una mezcla de los dos primeros, prueba a juntarlos o a quedarte solo con lo que comparten o con lo que no comparten.

Sample pages

1 ¿Qué imagen completa la cuadrícula?

★☆☆☆



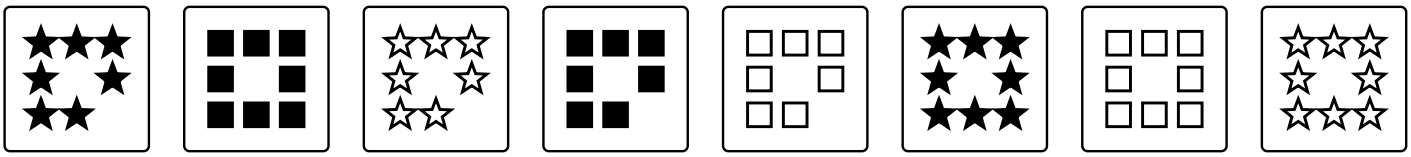

A B C D E F G H

2 ¿Qué imagen completa la cuadrícula?

★☆☆☆





A B C D E F G H

Sample pages

3 ¿Qué imagen completa la cuadrícula?

★☆☆☆





A B C D E F G H

4 ¿Qué imagen completa la cuadrícula?

★☆☆☆





A B C D E F G H

Sample pages

5 ¿Qué imagen completa la cuadrícula?

★☆☆☆





A B C D E F G H

---

6 ¿Qué imagen completa la cuadrícula?

★☆☆☆



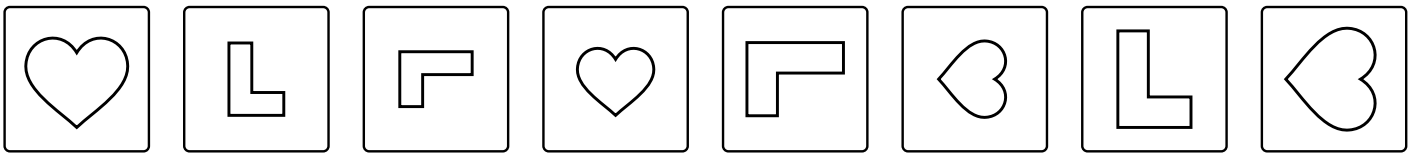

A B C D E F G H

Sample pages

7 ¿Qué imagen completa la cuadrícula? ★☆☆☆



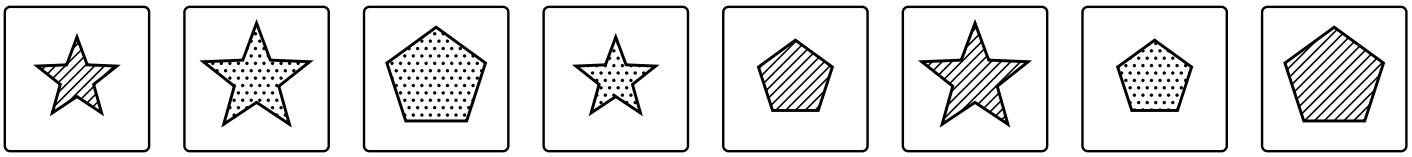

A B C D E F G H

8 ¿Qué imagen completa la cuadrícula? ★☆☆☆



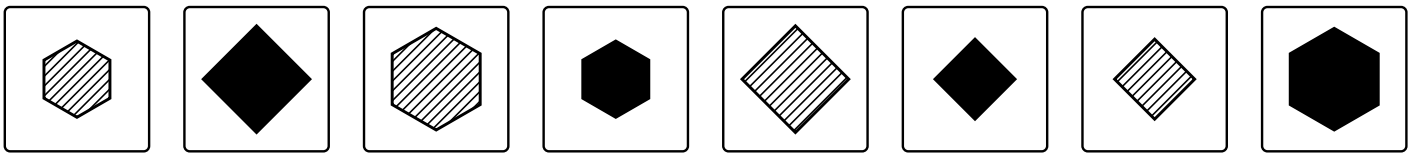

A B C D E F G H

Sample pages

9 ¿Qué imagen completa la cuadrícula?

★☆☆☆



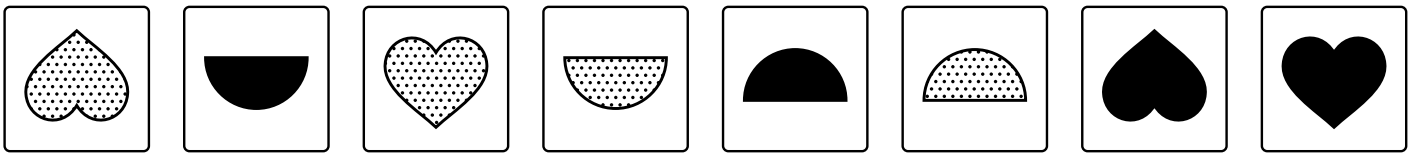

A **B** **C** **D** **E** **F** **G** **H**

10 ¿Qué imagen completa la cuadrícula?

★☆☆☆



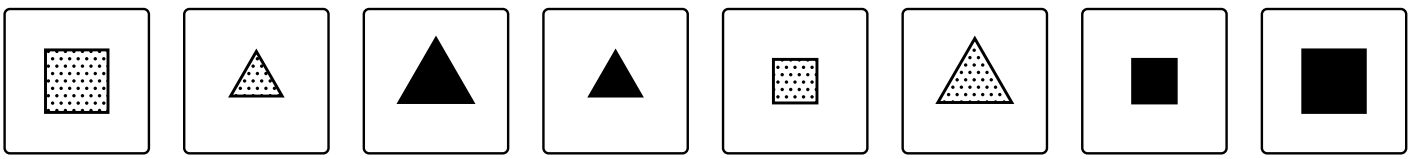

A **B** **C** **D** **E** **F** **G** **H**

Sample pages

11 ¿Qué imagen completa la cuadrícula?

★☆☆☆



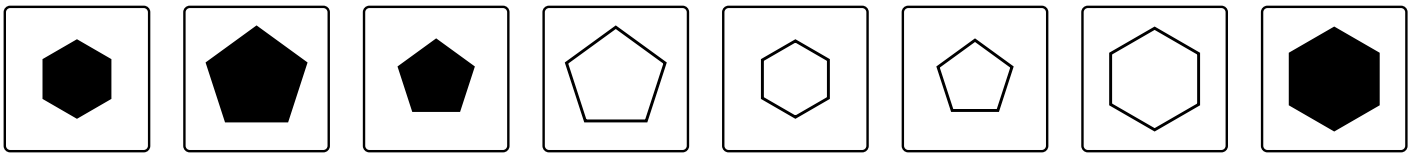

A B C D E F G H

---

12 ¿Qué imagen completa la cuadrícula?

★☆☆☆



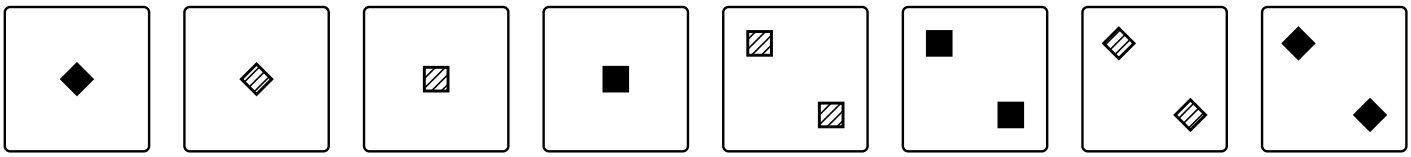

A B C D E F G H

Sample pages

13 ¿Qué imagen completa la cuadrícula?

★★☆☆





A **B** **C** **D** **E** **F** **G** **H**

---

14 ¿Qué imagen completa la cuadrícula?

★★☆☆





A **B** **C** **D** **E** **F** **G** **H**

Sample pages